NOM	.....
PRÉNOM	.....
ID	.....

LIVRET DE QUESTIONS

Gestionnaire en Achats et Supply chain Management

DURÉE : 1H30

RÈGLES À RESPECTER

1. Il est interdit d'ouvrir ce livret avant le départ de l'épreuve
2. La présente épreuve est constituée de 2 documents : un livret de question et une grille de réponse. Vous avez droit à un seul exemplaire de chaque.
3. Vous devez ABSOLUMENT renseigner vos réponses au niveau de la grille de réponse volante. Vous ne pouvez pas répondre sur le livret de question.
4. L'énoncé des tests et les consignes sont clairs. Pour chaque question, une seule bonne réponse est possible.
5. Une fois l'ensemble des épreuves terminées, vous devez remettre à l'examinateur, contre signature d'une décharge, votre livret de question et votre grille de réponse complétée.
6. Après avoir remis vos documents, vous êtes invités à quitter la salle.
7. Assurez-vous bien de la bonne réponse avant de la renseigner sur la grille de réponse, une fois que vous avez répondu vous NE POURREZ PLUS CHANGER DE REPONSE.
8. L'usage du crayon et/ou du Blanco EST INTERDIT
9. Vous n'avez pas besoin de feuille de brouillon, vous pouvez utiliser ce livret de question comme brouillon.
10. L'usage du téléphone et de la calculatrice n'est pas autorisé. De même, aucun échange n'est autorisé avec un autre candidat et aucun document n'est autorisé.
11. La règle est de ne pas quitter la salle pendant la séance d'examen. Si exceptionnellement, pour des raisons de force majeure, vous devez quitter la salle avant la fin du temps réglementaire, un membre de la commission de concours vous accompagnera et restera avec vous jusqu'à votre retour en salle.
12. Le scoring des réponses se fera comme suit :
    - Bonne réponse : 3 points
    - Pas de réponse : 0 points
    - Mauvaise réponse : -1 points

Guide de renseignement de la feuille de réponse

Ne mettez rien au niveau de ces 2 cases

Mettez votre numéro de convocation mentionné sur la convocation et sur la liste des candidats

Noircir chaque case correspondant aux chiffres de votre numéro de convocation mentionné sur chaque colonne.

Exemple :
Si le numéro de convocation est 31972, il faut noircir les cases suivantes :
La case de la 1ere colonne, 1ere case de la 2eme colonne, 9eme case de la 3éme colonne, 7eme case de la 4eme colonne et 2eme case de la 5eme colonne.

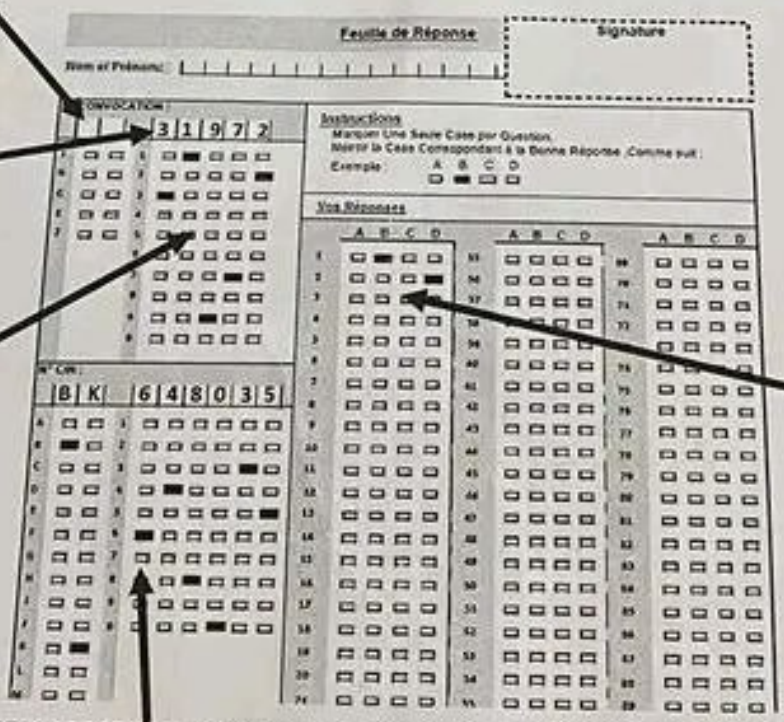

Noircir la case correspondant à la bonne réponse pour chaque question.

Exemple

Si la bonne réponse de la question 1 est B, noircir la 2eme case.

Si la bonne réponse de la question 2 est D, noircir la 4eme case

Noircir chaque case correspondant aux lettres et chiffres de votre Carte d'identité nationale mentionnés sur chaque colonne.

Exemple : Si le numéro de la CIN est BK648035, il faut noircir les cases suivantes :

- Pour les lettres :

La case B de la 1ere colonne, la case K de la 2eme colonne

- Pour les chiffres :

La 6eme case de la 1ere colonne, 4eme case de la 2eme colonne, 8eme case de la 3eme colonne, la dernière case correspondant à 0 de la 4eme colonne, la 3eme case de la 5eme colonne et la 5eme case de la 6eme colonne

wadifa-info.com
نماذج المباريات من موقع وظيفة إنفو
Source: www.wadifa-info.com/fr/modele-concours/3883 - Wadifa Info - page 1/6

N°	Question	Réponses	
1	Parmi ces trois termes, quel est celui qui ne se définit pas comme "processus continu d'amélioration" dans une entreprise	A. Six Sigma B. C.I.P.	C. Kaizen D. POKA YOKE
2	Dans un processus d'amélioration continue, le temps a une importance capitale, Il faut chercher à réduire	A. Les délais d'approvisionnement, de fabrication, de livraison B. Les temps de conception, de mise à disposition du produit, les temps de circulation	C. Les temps de mise à disposition de l'information de l'information, les délais de prise de décisions D. Tous les délais et les temps + nécessité d'un changement de culture dans l'entreprise (évolution des comportements individuels)....
3	Une Logistique Globale et intégrée est une transformation devenue nécessaire pour faire face	A. Aux nouvelles Technologies et processus managériaux B.Au changement de l'environnement direct de l'entreprise	C. A de nouvelles structures de fonctionnement D. Réponse A, B et C
4	L'appel à manifestation d'intérêt a pour objet de :	A. Recueillir des informations sur les fournisseurs actuels B. Garantir la participation de certains fournisseurs précis à un appel d'offres	C. Identifier au préalable les concurrents potentiels à un appel d'offres D. Consulter les prix du marché
5	La méthode ABC appliquée aux achats permet principalement de :	A. Segmenter les produits et services achetés B. Segmenter les fournisseurs	C. Identifier les pics d'activité d'achats D. Evaluer le panel fournisseurs
6	Le coût d'achat d'un actif augmenté de ses coûts d'exploitation pendant la durée de sa vie utile correspond au :	A. Coût complet de possession B. Coût complet d'acquisition	C. Coût total d'acquisition D. Coût total de possession
7	Le choix du fournisseur « le mieux disant » est basé sur :	A. Le prix proposé uniquement B. Le prix proposé et la qualité de l'offre	C. La qualité de l'offre uniquement D. Le prix négocié par l'acheteur
8	Dans la fonction Achats, l'activité de « sourcing » consiste à :	A. Evaluer les fournisseurs actuels B. Chercher de nouveaux fournisseurs	C. Recueillir les besoins d'achats au niveau de l'entreprise D. Aucune bonne réponse
9	Quelles sont les caractéristiques d'un "pilotage par l'aval" de la chaîne logistique :	A. Les flux de produits et les flux d'informations vont dans des sens différents (produit de l'amont vers l'aval Vs informations de l'aval vers l'amont) B. Les flux de produits et d'information vont dans des sens différents (les Produits de l'aval vers l'amont Vs informations de l'amont vers l'aval)	C. Les flux d'information et de produits vont dans le même sens: de l'amont vers l'aval D. Les flux d'information et de produits vont dans le même sens: de l'aval vers l'amont
10	Dans le contexte de gestion industrielle moderne, une entreprise doit avoir la capacité d'influencer l'évolution du marché avant ses concurrents. On dit alors qu'elle est :	A. Réactive B. Proactive	C. Suractive D. Dirigiste

wadifa-info.com نماذج المباريات من موقع وظيفة إنفو

Source: www.wadifa-info.com/fr/modele-concours/3883 - Wadifa Info - page 2/6

N°	Question	Réponses	
11	Samira se connecte au site de son école tous les jours, Ali tous les deux jours, Karima tous les 3 jours, Dahir tous les 4 jours, Mehdi tous les 5 jours, Réda tous les 6 jours et Jamal tous les 7 jours. Aujourd'hui, ils y sont tous. Dans combien de jours, au plus tôt, se connecteront ils de nouveau tous ensemble ?	A) 27 B) 28	C) 210 D) 420
12	Un magasin de bricolage reçoit de la part de son fournisseur un carton de 1 500 tournevis et un autre carton de 1 000 marteaux. On réalise alors des packs comprenant chacun 4 tournevis et 3 marteaux. Le magasin aura besoin de combien de marteaux de plus pour compléter tous les packs de tournevis ?	A) 42 B) 132	C) 125 D) 43
13	On a partagé 288 dh entre trois personnes. La première prend 3 fois ce que prend la deuxième. La troisième prend le double de ce que prend la deuxième. Quelle est la part de la troisième personne ?	A) 100 dh B) 104 dh	C) 96 dh D) 144 dh
14	Un avion contient 108 sièges. Au moment du décollage, il y a un siège vide pour deux sièges occupés. Combien y a-t-il de sièges vides dans l'avion après le décollage sachant que les trois hôtesses de l'air ont laissé leurs sièges vides ?	A) 33 B) 39	C) 48 D) 72
15	Dans une classe de collège, la moyenne des filles est de 14 sur 20, celle des garçons de 9 sur 20 et celle de toute la classe de 11 sur 20. Combien y-a-t-il de garçons sachant qu'il y a 20 filles ?	A) 15 B) 20	C) 25 D) 30
16	Dans une classe de 30 élèves il y a 12 garçons. Quel pourcentage de la classe représentent-ils ?	A) 12% B) 25%	C) 30% D) 40%
17	Le prix d'une villa a augmenté de 300% en 2021. Son prix a donc été multiplié par ?	A) 3 B) 4	C) 30 D) 300
18	Mon dernier salaire s'élève à 2500 DH y compris la rémunération de mes heures supplémentaires. Mon salaire de base est supérieur de 2000 DH à la rémunération de mes heures supplémentaires. Quel est le montant de mon salaire de base ?	A) 2000 dh B) 2050 dh	C) 2075 dh D) 2250 dh
19	Un problème d'imprimante a obligé Hassan à numéroter à la main les pages de sa présentation. Il a écrit 189 chiffres. Combien son mémoire contient-il de pages ?	A) 130 B) 119	C) 79 D) 99
20	Pour l'achat de trois pains, un boulanger offre le quatrième gratuitement. Ce boulanger a vendu 96 pains. Combien de pains gratuits a-t-il distribué ?	A) 24 B) 26	C) 28 D) 32
21	Pour un spectacle, 400 adultes et 200 enfants sont venus. Le prix d'un ticket pour adulte est 2 fois celui d'un enfant. Quel est le prix d'un ticket adulte sachant que la somme récoltée est 15 000 DH ?	A) 10 B) 15	C) 30 D) 60
22	Quelle lettre complète cette suite logique ? T O K H ?	A) G B) F	C) E D) D
23	Cette figure subit une symétrie sur l'axe vertical puis une rotation de 90° dans le sens horaire et enfin une symétrie sur l'axe vertical. Quelle figure en est le résultat ? 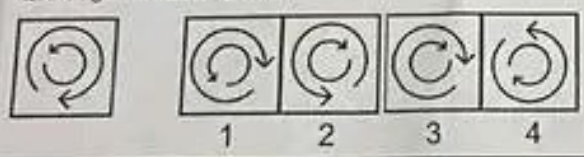 1 2 3 4	A) Figure 1 B) Figure 2	C) Figure 3 D) Figure 4
24	Trouvez le nombre et les lettres manquants : 4BD2 5FE6 7JG10 8PH16 ????	A) 2FD6 B) 4DQ17	C) 9RI17 D) 9VI22
25	Quelle figure correspond au point d'interrogation ?  1/ 2/ 3/ 4/	A) Figure 1 B) Figure 2	C) Figure 3 D) Figure 4
26	Quelle figure correspond au point d'interrogation ?  1 2 3 4	A) Figure 1 B) Figure 2	C) Figure 3 D) Figure 4

wadifa-info.com نماذج المباريات من موقع وظيفة إنفو

Source: www.wadifa-info.com/fr/modele-concours/3883 - Wadifa Info - page 3/6

27 Quelle figure obtient-on lorsque la feuille transparente est pliée le long des pointillés ?

A) Figure 1
B) Figure 2
C) Figure 3
D) Figure 4

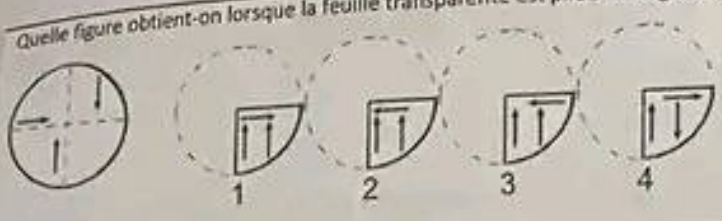

28 Quelle figure complète l'image ?

A) Figure A
B) Figure B
C) Figure C
D) Figure D

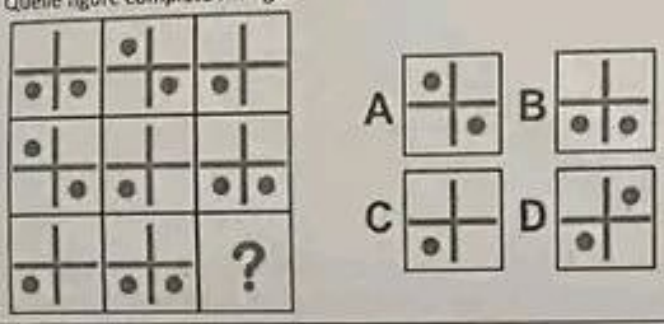

29 Quel est l'intrus ?

A) Figure 1
B) Figure 2
C) Figure 3
D) Figure 4

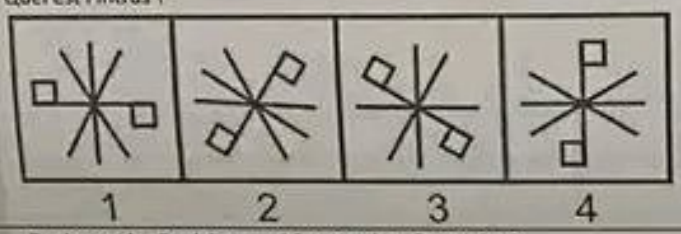

30 Quels sont les 2 schémas qui forment le même cube ?

A) 1 et 2
B) 2 et 3
C) 2 et 4
D) 3 et 4



36

wadifa-info.com
نماذج المباريات من موقع وظيفة إنفو
Source: www.wadifa-info.com/fr/modele-concours/3883 - Wadifa Info - page 4/6

N°	Question	Réponses	
31	Choisissez la reformulation dont le sens se rapproche le plus du passage souligné : La paranoïa est une sorte de folie de la persécution.	A) L'interprétation morbide des comportements et des propos d'autrui renforce la maladie du paranoïaque B) Le paranoïaque est un sujet méfiant et susceptible qui entretient la conviction qu'autrui veut lui nuire	C) Le parano passe sa vie à déjouer les complots dirigés contre lui D) Les paranoïaques relèvent constamment les moindres injustices dont ils sont victimes
32	Choisissez la reformulation dont le sens se rapproche le plus du passage souligné : Négocier, c'est mettre en œuvre des pratiques qui permettent de composer pacifiquement les intérêts divergents ou antagonistes.	A) La négociation est une sorte de marchandage où le meilleur obtient des concessions B) Négocier, c'est découvrir une solution acceptable en mettant en avant ce qui peut être avantageux aux deux parties	C) Négocier consiste à savoir introduire dans son discours des arguments assez pertinents pour réduire à néant les objections D) Négocier, c'est savoir couper la poire en deux sans couper les cheveux en quatre
33	Indiquez la formulation la plus correcte et la plus claire pour exprimer le sens du passage souligné : Il travaillait souvent à Paris, à Lyon et à Genève. Il louait donc un appartement dans chacune de ces trois villes malgré le coût occasionné par cette habitude.	A) Malgré le coût occasionné par cette habitude B) Malgré l'occasion de cette habitude coûteuse	C) Malgré le coût de cette habituelle occasion D) Malgré que cette habitude lui coûte chère
34	ARTIFICIEL est à ... ce que ... est à PROFOND	A) Plante/Mer B) Réalité/Fabriqué	C) Naturel/Superficiel D) Île/Océan
35	Quel autre proverbe a le sens le plus proche de celui-ci : Quand court le renard, le poulet a des ailes.	A) La faim chasse le loup hors du bois B) Il ne faut pas braver l'interdit	C) Les poules pondent avec le bec D) Le sanglier sait contre quel arbre il peut se gratter
36	Quel est l'intrus ?	A) Maisonnette B) Toilette	C) Brossette D) Voiturette
37	Quel est le synonyme de : SUBTERFUGE	A) Situation B) Echappatoire	C) Esquiver D) Endormir
38	La gratuité de l'enseignement crée ..... d'une égalité des chances pour tous.	A) les inconvénients B) l'absence	C) les limites D) les conditions
39	If you lose your key and can't get into the office call.....	A) A security B) Security	C) Police D) Locksmith
40	If you are looking for a job in web....., I have seen one advertised in today's paper.	A) design B) designed	C) designer D) designs
41	Le nombre de ministres dans le nouveau gouvernement du Maroc :	A) 23 B) 24	C) 28 D) 33
42	Qui est le nouveau ministre de Transport et de la Logistique	A) Karim Ghallab B) Mohamed Abdeljalil	C) Abdelkader Amara D) Nizar Baraka
43	Quel est le parti qui a été classé 2eme lors des dernières élections législatives au Maroc ?	A) RNI B) PI	C) PAM D) USFP
44	À date d'aujourd'hui, le nombre de citoyens au Maroc ayant bénéficié de la deuxième dose du Vaccin contre le Covid19 a dépassé :	A) 10 M B) 15M	C) 20 M D) 25 M
45	Le 15 novembre 2021, le train à grande vitesse "Al Boraq" fêtera ses :	A) 3 ans B) 1 ans	C) 5 ans D) 10 ans
46	Quel est le nom de la plus grande station solaire du Maroc :	A) Shams B) Noor	C) Daoua Ouarzazate D) Solar Ouarzazat
47	Avec lequel de ces secteurs l'ONCF n'a pas de partenariats facilitant le transport et la logistique de la marchandise :	A) Cimentier B) Minier	C) Agroalimentaire D) Pharmaceutique
48	Quel est le taux d'émissions de GES (Gaz à Effet de Serre) de l'ONCF au Maroc :	A) 0,41% B) 14,10%	C) 4,4% D) 40,4%

wadifa-info.com
نماذج المباريات من موقع وظيفة إنفو
Source: www.wadifa-info.com/fr/modele-concours/3883 - Wadifa Info - page 5/6

Wadifa Info

www.wadifa-info.com

Le sujet suivant à préparer — **النموذج التالي للتحضير**

نموذج مباراة توظيف إطار مالي ومحاسباتي - الشركة الجهوية متعددة الخدمات الرباط-سلا-القنيطرة 2026

Modèle de concours : Cadre finance et comptabilité – Société Régionale Multiservices Rabat-Salé-Kénitra (SRM-RSK) 2026 –

www.wadifa-info.com/fr/modele-concours/929

Chaîne WhatsApp — **قناة واتساب**

المباريات الجديدة والنتائج كل يوم

Nouveaux concours et résultats chaque jour

wadifa-info.com/wa

Chaîne YouTube — **قناة يوتيوب**

امتحانات تجريبية بالتصحيح، بالدارجة

Examens blancs corrigés, expliqués en darija

youtube.com/@wadifainfo

Envoyer à un ami — **أرسل النموذج لصديق**

شارك هذا النموذج على واتساب مع من يحضّر معك

Partagez ce sujet sur WhatsApp

wa.me