ABE	DUREE : 20 MINUTES

كل شيء في الطبيعة جميل، وأجمل ما فيها شمسها، لها في الصيف جمال القوة و الظهور ولكننا نجد الخير في قسوتها. وفي الشتاء تطل علينا بوجه آخر، ترينا فيه جمال الحنو والعطف الزهر من جمالها فتنة، و ترسل على البحر أشعتها فيتحول ماؤه بخارا وقد فارقته ملوحته، الفضاء الرحب غيوما، ثم ينزل على الأرض غيثا يحيي ذابل الزهر، وينضج ثمار الأشجار.

أيتها العظيمة و العجيبة في الوقت نفسه، تتحركين فتغمرين الكون بدفئك، و ترسلين أشعتك الجميلة فتدب فيه الحركة، وتغيبين عنه فيجن الظلام، لا تملين الحركة و لا تشعرين بنوم أو يقظة ولا بليل يجري الدم في عروقنا، فما أعظمك و أعظم منك من خلقك.

1 – اقترح عنوانا مناسبا للنص : ..... (2ن)

2- اشكل الفقرة الثانية من النص شكلا تاما : (3ن)

3- ايت بجموع الكلمات التالية : (2ن)

القوة..... الدم.....

4- ايت بأضداد الكلمات التالية : (3ن)

الظهور..... الرحب ..... الحركة.....

5- حول الجملة التالية " تقسو وتلين لأنها خيرة و شريرة " (6ن)

أنتما (المذكر).....

هن.....

هم.....

6-استخرج من النص الجملة المناسبة للترسيمة الاتية : (4ن)

فعل	فاعل	جار ومجرور	مفعول به	فعل	فاعل	مفعول به مضاف	مضاف اليه
.....	.....	.....	.....	.....	.....	.....	.....

wadifa-info.com نماذج المباريات من موقع وظيفة إنفو

العربية

1. الشكل التام للنص 7 اسطر
2. شرح الكلمات من النص
3. مرادف الكلمات من النص
4. الفكرة العامة للنص
5. لماذا يجب المحافظة على البيءة

6. اكتب كلمة ابن -بن حسب السياق مع الشكل التام
زيد ....عمي
علي....عبد المطلب

7. ابني الجملة للمبني للمجهول
يدمر الانسان الارض...الجواب ..تدمر الارض

8. المزيد و المعتل و المجرد مع استخراج حروف الزيادة
استكمل...استعمل...فاعل...استعمال....

9. المثنى والجمع المدكر والمونث السالم للجملة
مممممممممم

wadifa-info.com نماذج المباريات من موقع وظيفة إنفو

Source: www.wadifa-info.com/fr/modele-concours/3302 - Wadifa Info - page 2/11

الرياضيات

المتتاليات الحسابية مع الجمع والضرب أو القسمة
6 42 78 114....
3 6 36 118 ...
12 85 158 ...
.....
.....
.....
.....

المتتاليات الحسابية مع الأشكال
.... مثلث 6 3
...مربع 4 9 7
...مستطيل 2 9 6
.....المكعب
.....متوازي الاضلاع

الأشكال : ايجاد الشكل الخطا من بين الاشكال المبينة
6 أشكال
6 أشكال
6 أشكال
6 أشكال
6 أشكال
6 أشكال

الأشكال : حساب عدد الأوجه للأشكال :
المثلث
المستطيل
المربع
الاسطوانة
المكعب
متوازي الأضلاع.....

حل المسالة يبلغ معدل توزيع البعاءث في وكالة البريد تاهلة 358 بعثة في اليوم...إذا علمنا أنها تتوفر على 3 ساعي البريد :
الأول وزع 296
الثاني وزع 543
كم وزع ساعي البريد الثالث ؟

wadifa-info.com
نماذج المباريات من موقع وظيفة إنفو
Source: www.wadifa-info.com/fr/modele-concours/3302 - Wadifa Info - page 3/11

المؤنث Masculin féminin
Facteur factrice
Guichetier....
Roi....
Monsieur.....
Maitre....
Patron....
Chef.....

Contraire des mots

Laver # salir
Grandir# vulgarité
Beauté # hideur
Installe # désinstalle
Eteindre # allumer
Avoir tout # avoir raison
Lent # rapide
Recule # avance
Hideur # beau
Bonheur# malheur
Perdre # gagner
Echoue # réussir
Aimer # détester
Economiser # gaspiller

Synonyme des mots

Grand....
Petit....
Jolie.....
Méchant..
Soif.....
Nerveux....

Conjuguer le verbe selon la phrase

Hier je "acheter" le pain
Tu "réussir" si tu "travail" plus
Je "être" au cinéma avec mes amis
Je "être" un pilote d'avion

wadifa-info.com نماذج المباريات من موقع وظيفة إنفو
Source: www.wadifa-info.com/fr/modele-concours/3302 - Wadifa Info - page 4/11

DUREE : 20 MINUTES

LE FEMININ DES NOMS SUIVANTS (2pts)

	Féminin
Docteur	Docteure
Facteur	

METTEZ AU PLURIEL LES NOMS SUIVANTS (3 pts)

1. Réseaux. Réponse : _____

2. Capital. Réponse : _____

3. Occidental. Réponse : _____

4. Cardinal. Réponse : _____

5. Chacal. Réponse : _____

6. Œil. Réponse : _____

III. TROUVEZ LE NOM DE SENS CONTRAIRE (3 pts)

1- Sauvage. Réponse : _____

2- Largeur. Réponse : _____

3- Malhonnêteté. Réponse : _____

4- Ordre. Réponse : _____

5- Pauvreté. Réponse : _____

6- Symbiose. Réponse : _____

IV. TROUVEZ LE VERBE DE SENS CONTRAIRE (3pts)

1- Valider. Réponse : dévalider

2- Acheter. Réponse : _____

3- Détester. Réponse : tester

4- Tolérer. Réponse : _____

5- Interdire. Réponse : _____

6- Associer. Réponse : .....

wadifa-info.com نماذج المباريات من موقع وظيفة إنفو

Source: www.wadifa-info.com/fr/modele-concours/3302 - Wadifa Info - page 5/11

Question 12 : Quel est le nombre manquant ?



Réponse: _____

Code

II. TROUVEZ L'INTRUS DANS LES SÉRIES DES FIGURES SUIVANT

Question 13 :

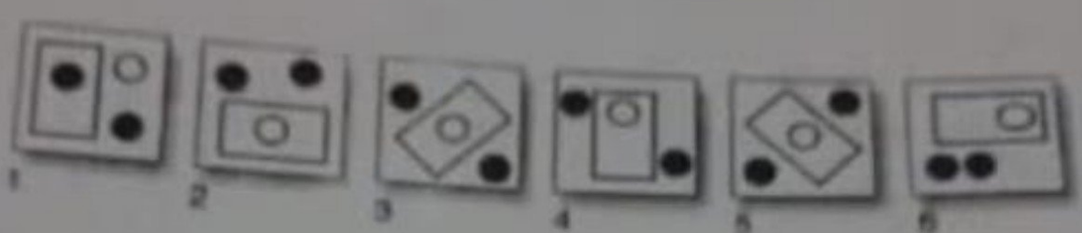

Réponse : .....

Question 14 :



Réponse : .....

Question 15 :

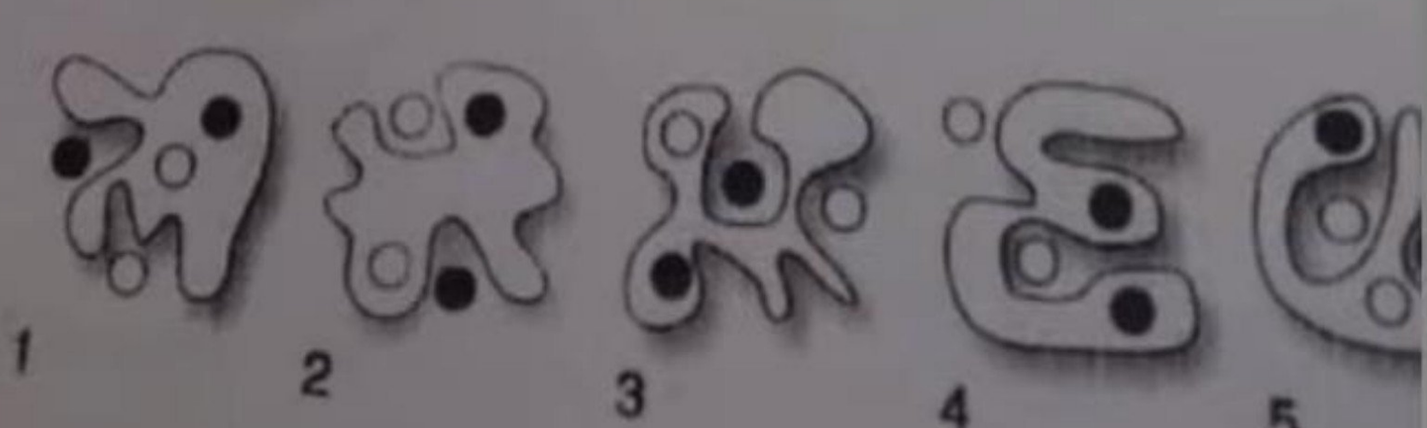

wadifa-info.com نماذج المباريات من موقع وظيفة إنفو

Source: www.wadifa-info.com/fr/modele-concours/3302 - Wadifa Info - page 6/11

Question 12: Quel est le nombre manquant ?

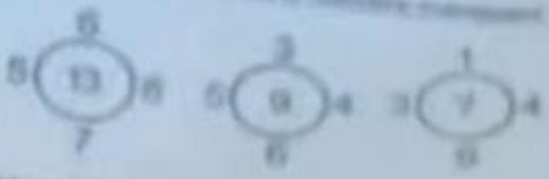

Réponse :

II. DÉTERMINER LE NOMBRE DE FACES DANS LES FIGURES SUIVANTES :

Question 13 : Combien de faces a cette structure?



Réponse :

Question 14: Combien de faces a cette structure?



Réponse :

Question 15 : Combien de faces a cette structure?



Réponse :

III. TROUVEZ L'INTRUS (forme différente) DANS LES SÉRIES DE FIGURES SUIVANTES : (Entourez la réponse).

Question 16



Réponse :

wadifa-info.com
نماذج المباريات من موقع وظيفة إنفو
Source: www.wadifa-info.com/fr/modele-concours/3302 - Wadifa Info - page 7/11

...LES SERIES SUIVANTES:

Question 1

5 10 16 23 28 34 ....?

Question 2

82 41 46 23 28 14 ....?

Question 3

4 12 6 6 18 9 ....?

Question 4

7 10 20 23 46 49 ....?

Question 5

21 18 14 19 25 18 ....?

Question 6

54 18 36 12 24 8 ....?

Question 7

4 6 12 10 12 24 ....?

Question 8

50 47 43 38 32 25 ....?

Question 9

32 26 21 84 252 250 ....?

Question 10

1 3 1 5 1 7 ....?

wadifa-info.com نماذج المباريات من موقع وظيفة إنفو

Source: www.wadifa-info.com/fr/modele-concours/3302 - Wadifa Info - page 8/11

EST DE RAISONNEMENT LOGIQUE ET NUMERIQUE | DUREE : 20 MINU

REMPLACEZ LE POINT D'INTERROGATION (?) PAR LE *NOMBRE* QUI CON
SÉRIES SUIVANTES :

Question 1

16 20 16 19 16 18 _____?

Question 2

6 6 6 4 4 4 _____?

Question 3

5 7 9 11 9 7 _____?

Question 4

15 13 11 33 31 29 _____?

Question 5

9 10 8 24 6 7 .....?

Question 6

18 13 26 21 42 37 .....?

Question 7

16 48 24 72 36 108 .....?

Question 8

60 62 65 69 65 59 .....?

Question 9

60 10 2 8 24 12 .....?

Question 10

11 7 9 9 5 7 .....?

Question 11: Quel est le nombre manquant ?

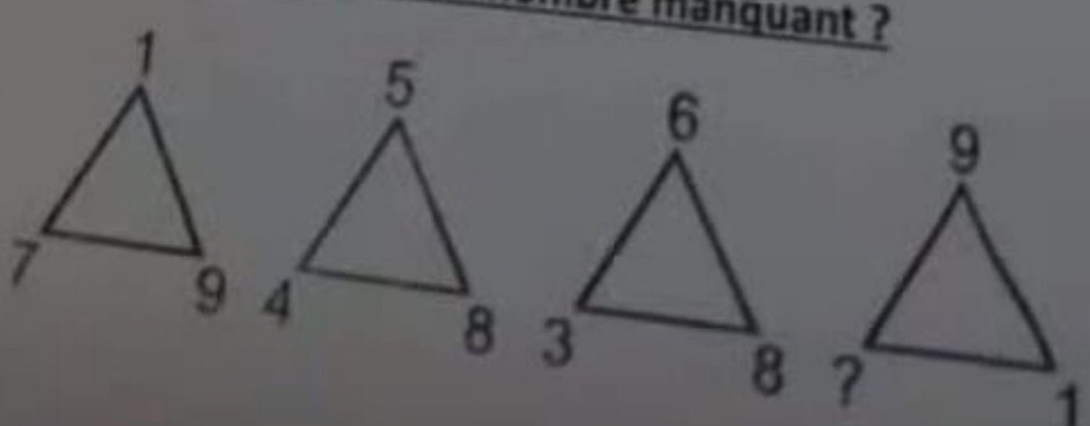

wadifa-info.com نماذج المباريات من موقع وظيفة إنفو

Source: www.wadifa-info.com/fr/modele-concours/3302 - Wadifa Info - page 9/11

Question 4

10 22 37 54 86 130

Question 5

48 51 55 60 66 73

Question 6

6 25 44 63 82 101

Question 7

10 24 38 52 66 80

Question 8

58 36 69 76 84 62

Question 9

6 24 96 384 1536 6144

Question 10

5 25 125 625 3125 15625

Question 11 : Quel est le nombre manquant ?

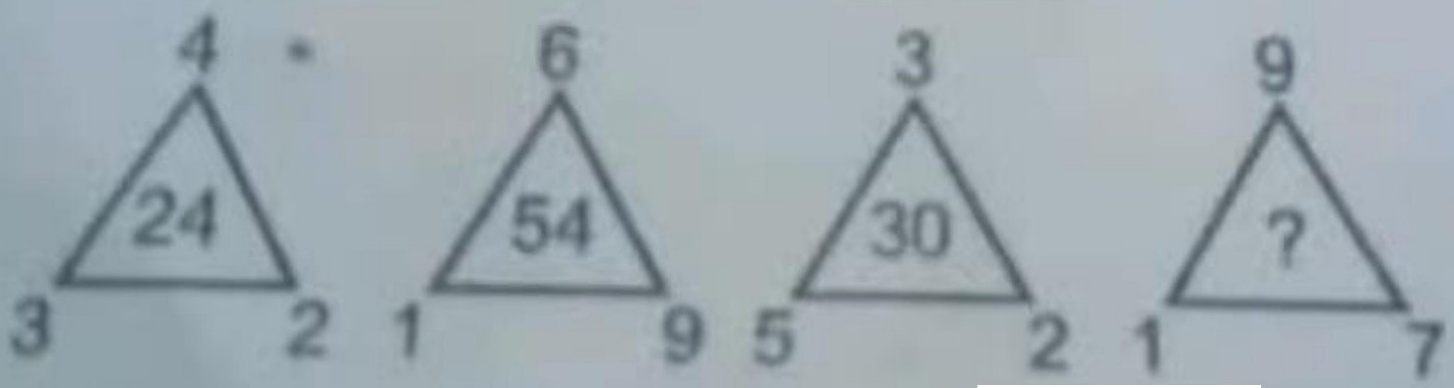

Réponse : .....

wadifa-info.com
نماذج المباريات من موقع وظيفة إنفو
Source: www.wadifa-info.com/fr/modele-concours/3302 - Wadifa Info - page 10/11

Wadifa Info

www.wadifa-info.com

Le sujet suivant à préparer — **النموذج التالي للتحضير**

نموذج مباراة توظيف إطار مالي ومحاسباتي - الشركة الجهوية متعددة الخدمات الرباط-سلا-القنيطرة 2026

Modèle de concours : Cadre finance et comptabilité – Société Régionale Multiservices Rabat-Salé-Kénitra (SRM-RSK) 2026 –

www.wadifa-info.com/fr/modele-concours/929

Chaîne WhatsApp — **قناة واتساب**

المباريات الجديدة والنتائج كل يوم

Nouveaux concours et résultats chaque jour

wadifa-info.com/wa

Chaîne YouTube — **قناة يوتيوب**

امتحانات تجريبية بالتصحيح، بالدارجة

Examens blancs corrigés, expliqués en darija

youtube.com/@wadifainfo

Envoyer à un ami — **أرسل النموذج لصديق**

شارك هذا النموذج على واتساب مع من يحضّر معك

Partagez ce sujet sur WhatsApp

wa.me