ROYAUME DU MAROC

Ministère de l'Éducation Nationale, de l'Enseignement Supérieur,
de la Formation des Cadres et de la Recherche Scientifique

Présidence du Concours National Commun
Ecole Supérieure des Industries du Textile et de l'Habillement
ESITH

Concours National Commun d'admission aux Grandes Écoles d'Ingénieurs ou assimilées Session 2010

ÉPREUVE DE PHYSIQUE I

Filière **MP**

Durée 4 heures

Cette épreuve comporte 8 pages au format A4, en plus de cette page de garde
L'usage de la calculatrice est *autorisé*

wadifa-info.com نماذج المباريات من موقع وظيفة إنفو

Source: www.wadifa-info.com/fr/modele-concours/1692 - Wadifa Info - page 1/10

L'énoncé de cette épreuve comporte 8 pages.
L'usage de la calculatrice est autorisé.

On veillera à une présentation claire et soignée des copies. Il convient en particulier de rappeler avec précision les références *des questions abordées.*

Utilisation de l'énergie solaire

Le problème propose l'étude de quelques aspects de l'utilisation de l'énergie solaire. Les deux premières parties traitent le fonctionnement d'un capteur solaire plan destiné à produire de l'eau chaude sanitaire. La troisième partie, totalement indépendante, traite la conversion d'énergie solaire en électricité au moyen des cellules photovoltaïques.

Dans les applications numériques, qui ne doivent pas être négligées, une attention particulière sera prêtée au nombre de chiffres à utiliser pour afficher les résultats. Ce nombre, qui dépend en général du niveau de précision recherché, ne doit en aucun cas dépasser le nombre de chiffres significatifs permis par les données. La valeur numérique de toute grandeur physique doit être accompagnée de son unité dans le système international des unités (SI).

Si, au cours de l'épreuve, un candidat repère ce qui lui semble être une erreur d'énoncé, il le signale sur sa copie et poursuit sa composition en indiquant les raisons des initiatives qu'il est amené à prendre.

Dans les deux premières parties, on se place en régime permanent. Les températures seront alors considérées indépendantes du temps.

Données numériques

- constante de STEFAN : $\sigma = 5,67.10^{-8}\ W.m^{-2}.K^{-4}$
- capacité thermique de l'eau : $C_m = 4,2\ kJ.kg^{-1}.K^{-1}$
- masse volumique de l'eau : $\rho = 10^3 kg.m^{-3}$

1ère partie

Bilan thermique dans un capteur solaire plan

On considère un capteur solaire thermique plan constitué d'un absorbeur qui est une plaque métallique, de surface S, recouverte d'une peinture noire. La paroi absorbante (absorbeur), s'échauffe sous l'effet de l'absorption du rayonnement solaire incident. Une partie de l'énergie thermique est récupérée par la circulation d'eau à un débit massique D_m (masse d'eau traversant le capteur par unité de temps) qui s'effectue entre la face arrière de l'absorbeur et une paroi parfaitement isolée. Les parties latérales du capteur étant considérées parfaitement isolées. Le schéma de principe d'un capteur solaire plan est donné sur la figure 1.

Une couverture transparente (vitre), de même surface que l'absorbeur, est placée à une distance $d = 2\ cm$ en avant de la plaque absorbante. La plaque métallique absorbe intégralement le rayonnement solaire auquel est exposée et le remet suivant une loi de corps noir. On suppose que la couverture est totalement transparente au rayonnement visible et totalement absorbante du rayonnement infrarouge de longueur d'onde supérieure à $1\ \mu m$ et que le rayonnement solaire n'en contient presque pas au niveau du sol. La couverture est alors considérée comme un corps noir pour des longueurs d'ondes supérieures à $1\ \mu m$.

wadifa-info.com نماذج المباريات من موقع وظيفة إنفو

Source: www.wadifa-info.com/fr/modele-concours/1692 - Wadifa Info - page 2/10

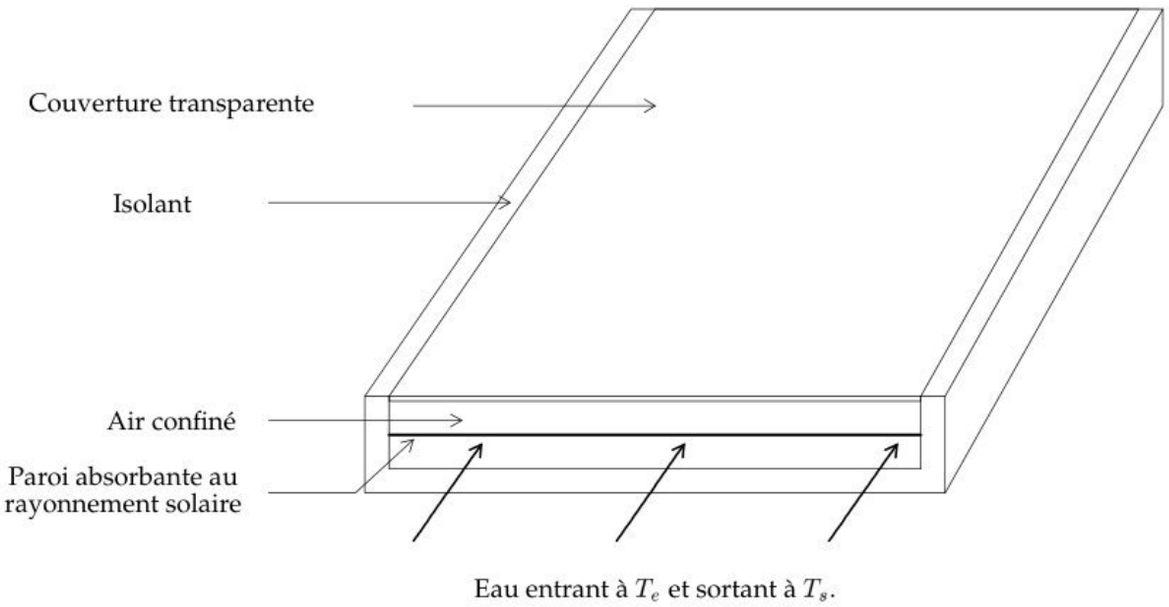

Figure 1: Schéma de principe d'un capteur solaire plan

La température d'entrée de l'eau en écoulement est $T_e = 290\ K$, celle en sortie sera notée T_s. Le fluide subit alors une élévation de température $T_s - T_e$ à la traversée du capteur. L'air extérieur est à la température $T_a = 280\,K$.

L'ensoleillement est pris en compte, au niveau de la surface avant du capteur, par l'intermédiaire du flux solaire surfacique $E = 800\ W.m^{-2}$. On note ℓ la largeur de la plaque et L sa longueur dans le sens d'écoulement du fluide ($S = L.\ell$).

On rappelle que lorsqu'un fluide à la température T_2 s'écoule au contact d'une paroi à la température T_1, le flux thermique surfacique échangé par la paroi avec le fluide est $h(T_1 - T_2)$; h étant le coefficient de transfert conducto-convectif.

1.1. Préliminaires

1.1.1. Définir les deux modes de transfert thermique par conduction et par convection, ainsi que le transfert d'énergie par rayonnement. Donner un exemple pour chaque type de transfert.

1.1.2. La longueur d'onde λ_m, pour laquelle la densité spectrale d'un rayonnement à l'équilibre thermique est maximum, est reliée à la température T à l'équilibre par la loi :

$$\lambda_m T = 2898\ \mu m.K$$

Comment s'appelle cette loi ?

1.1.3. Les températures mises en jeu dans le capteur sont de l'ordre de $300\ K$.

1.1.3.1. Déterminer la longueur d'onde λ_m correspondante au maximum du spectre du rayonnement d'équilibre avec un corps noir à cette température.

1.1.3.2. Comment se comporte la couverture en vitre vis à vis de ce rayonnement ?

1.1.4. Définir la notion de corps noir.

1.1.5. Expliquer à quoi correspondent ϕ et T dans la loi de STEFAN : $\phi = \sigma T^4$.

wadifa-info.com نماذج المباريات من موقع وظيفة إنفو

Source: www.wadifa-info.com/fr/modele-concours/1692 - Wadifa Info - page 3/10

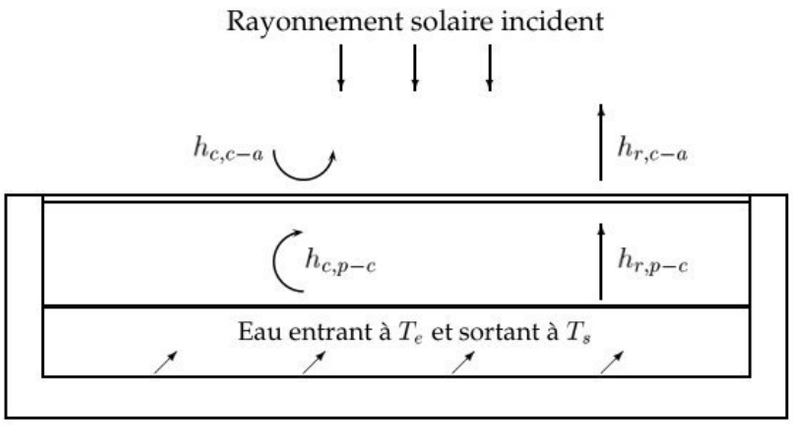

Figure 2: Flux thermiques échangés dans le capteur plan.

1.2. Bilan thermique global du capteur

On admet qu'en régime permanent le flux thermique stocké dans le capteur est négligeable. On notera ϕ_a la puissance thermique absorbée par le capteur, ϕ_u la puissance thermique utile c.à.d. celle récupérée par le fluide et ϕ_p la puissance thermique perdue par le capteur.

1.2.1. Écrire la relation liant ϕ_a, ϕ_u et ϕ_p et qui traduit le bilan thermique du capteur.

1.2.2. Écrire la puissance absorbée par le capteur en fonction de l'éclairement solaire au niveau du sol E et de la surface S.

1.2.3. Le fluide ne subit pas de changement d'état. Écrire l'expression de la puissance thermique utile en fonction des températures d'entrée T_e et de sortie T_s, du débit massique D_m et de la capacité calorifique massique C_m du fluide. En déduire la relation suivante :

$$E.S = D_m C_m \left(T_s - T_e\right) + \phi_p \tag{1}$$

1.3. Estimation des pertes thermiques du capteur

Les échanges thermiques par convection-conduction et par rayonnement entre le capteur et l'extérieur peuvent être schématisés comme indiqué sur la figure 2.

Par souci de simplification, on suppose que la paroi absorbante est portée à la température moyenne T_{pm}. L'air emprisonné entre la vitre et la plaque est immobile, sa conductivité thermique est $\lambda = 0,025\ W.m^{-1}.K^{-1}$. On néglige le phénomène de conduction thermique dans la vitre (couverture transparente) dont la température est supposée uniforme et égale à T_c. Les échanges thermiques conducto-convectif entre la couverture et l'air extérieur sont pris en compte par l'intermédiaire d'un coefficient global $h_{c,c-a} = 10\ W.m^{-2}.K^{-1}$.

1.3.1. Pertes par convection-conduction

1.3.1.1. Rappeler la loi de FOURIER relative à la conduction thermique dans un milieu matériel siège d'un gradient de température.

1.3.1.2. Écrire l'expression du flux thermique $\phi_{c,p-c}$ échangé par conduction entre la paroi absorbante et la couverture.

1.3.1.3. Montrer que l'expression précédente peut être écrite sous la forme approchée suivante :

$$\phi_{c,p-c} \simeq h_{c,p-c}(T_{pm} - T_c).S$$

wadifa-info.com نماذج المباريات من موقع وظيفة إنفو

Source: www.wadifa-info.com/fr/modele-concours/1692 - Wadifa Info - page 4/10

Donner l'expression de $h_{c,p-c}$ en fonction de λ et d.

1.3.1.4. Application numérique : calculer $h_{c,p-c}$.

1.3.1.5. Donner l'expression du flux $\phi_{c,c-a}$ échangé par convection-conduction entre la couverture et l'air extérieur en fonction de $h_{c,c-a}$, T_c, T_a et S.

1.3.2. Pertes par rayonnement

1.3.2.1. Écrire l'expression du flux $\phi_{r,p-c}$ échangé par rayonnement entre la paroi absorbante et la couverture transparente en fonction de T_{pm}, T_c, S et la constante de STEFAN σ.

Les températures de la paroi absorbante et de la couverture transparente sont assez proches et l'écart $(T_{pm} - T_c)$ est nettement inférieur à T_{pm} et à T_c.

1.3.2.2. En linéarisant l'expression de la question précédente, montrer que $\phi_{r,p-c}$ peut s'écrire sous la forme approchée :

$$\phi_{r,p-c} \simeq h_{r,p-c}(T_{pm} - T_c).S \tag{2}$$

Donner l'expression de $h_{r,p-c}$ en fonction de T_{pm} et de σ.

Le flux surfacique rayonné par le ciel et l'atmosphère vers la terre peut être calculé par : $W = \epsilon_a.\sigma.T_a^4$; ϵ_a étant l'émissivité de l'atmosphère, elle est donnée en fonction de la température de l'air ambiant par l'expression :

$$\epsilon_a = 1 - 0.261 \exp\left(-7,77.10^{-4}.(T_a - 273)^2\right)$$

1.3.2.3. Déterminer la valeur de ϵ_a.

1.3.2.4. Écrire l'expression du flux $\phi_{r,c-a}$ échangé par rayonnement entre la couverture transparente et l'air extérieur en fonction de T_c, T_a, S, σ et ϵ_a.

1.3.2.5. Écrire l'expression du flux précédent sous la forme :

$$\phi_{r,c-a} \simeq h_{r,c-a}(T_c - T_a).S$$

Donner l'expression de $h_{r,c-a}$ en fonction de σ, ϵ_a, T_c et T_a. On posera : $h_0 = 4\sigma T_a^3$.

1.3.3. Flux total perdu

L'élément extracteur de l'énergie solaire est la paroi absorbante. Le flux total perdu par le capteur ϕ_p peut être alors ramené en un flux perdu par cette paroi.

1.3.3.1. Écrire l'expression du flux thermique total perdu par la paroi ϕ_p en fonction de $\phi_{c,p-c}$ et $\phi_{r,p-c}$, puis en fonction de $h_{c,p-c}$, $h_{r,p-c}$, T_{pm}, T_c et S.

1.3.3.2. Écrire le bilan thermique de la couverture transparente.

1.3.3.3. En déduire que sa température T_c s'écrit sous la forme :

$$T_c = \frac{(h_0 + h_{c,c-a})T_a + (h_{r,p-c} + h_{c,p-c})T_{pm} - \sigma T_a^4(1 - \epsilon_a)}{h_0 + h_{c,c-a} + h_{r,p-c} + h_{c,p-c}} \tag{3}$$

1.3.3.4. Montrer que le flux thermique total perdu par la paroi peut s'écrire sous la forme :

$$\phi_p = h_p(T_{pm} - T_a)S \tag{4}$$

Donner l'expression de h_p en fonction de $h_{c,p-c}$, $h_{r,p-c}$, $h_{c,c-a}$ et $h_{r,c-a}$.

wadifa-info.com نماذج المباريات من موقع وظيفة إنفو

Source: www.wadifa-info.com/fr/modele-concours/1692 - Wadifa Info - page 5/10

2ème partie

Conditions de fonctionnement d'un capteur solaire

On se place ici dans le cas de figure où l'on dispose d'un capteur solaire plan dont on connaît les dimensions et les propriétés thermiques des différents éléments constitutifs. Le problème est de déterminer son rendement η dans des conditions météorologiques données. Les inconnues du problème sont : T_{pm}, T_c, h_p et η.

On s'intéresse à la récupération directe de l'eau chaude sanitaire du capteur avec un débit massique D_m de 5 litres par minute et on prendra dans cette partie : $\ell = 1\ m$ et $L = 10\ m$.

2.1. Profil de température dans le sens de l'écoulement du fluide

Notons $T(x)$ la température de la paroi au niveau de l'abscisse x, mesurée le long de la direction de l'écoulement ($0 \leq x \leq L$), et $d\phi_u$ le flux élémentaire cédé par la paroi absorbante à la tranche de fluide située entre les abscisses x et $x + dx$. On suppose que l'écoulement est assez lent de manière à considérer que le fluide soit en équilibre thermique local avec la paroi et que sa température soit uniforme sur une section transversale.

2.1.1. En utilisant l'expression établie dans la question 1.2.2. et la relation (4), déterminer les expressions de la puissance absorbée et de la puissance perdue par l'élément de surface $dS = \ell.dx$ du capteur et qui est situé entre les abscisses x et $x + dx$.

2.1.2. Déterminer l'expression de la puissance utile $d\phi_u$ transmise au fluide lors de son passage dans la tranche du capteur située entre x et $x + dx$.

2.1.3. En effectuant le bilan thermique sur la portion de fluide située entre x et $x + dx$, montrer que $T(x)$ satisfait à l'équation différentielle suivante :

$$\frac{dT(x)}{dx} + \frac{h_p\,\ell}{D_m C_m}\,(T(x) - T_a) = \frac{E\,\ell}{D_m C_m} \tag{5}$$

2.1.4. Déterminer le profil de température $T(x)$ de la plaque absorbante le long de la direction de l'écoulement du fluide. Déterminer la longueur caractéristique δ des variations de la température en fonction de D_m,C_m, h_p et ℓ. Tracer l'allure de la courbe $T(x)$.

2.1.5. Établir l'expression de la température moyenne de la plaque T_{pm}.

2.1.6. Montrer que la température de sortie du fluide T_s s'écrit sous la forme :

$$T_s = T_a + \frac{E}{h_p} + \left(T_e - T_a - \frac{E}{h_p}\right) \exp\left(-\frac{L}{\delta}\right) \tag{6}$$

2.2. Calcul du rendement global

La température moyenne de la plaque absorbante T_{pm} est déterminée par une méthode itérative. On prendra : $T_{pm} = 300\ K$.

2.2.1. Calculer les valeurs numériques de $h_{r,p-c}$ introduite dans la relation (2), et de T_c. En déduire la valeur de h_p.

2.2.2. Déterminer la valeur numérique de la température T_s de l'eau à la sortie du capteur.

2.2.3. Le rendement du capteur est défini comme étant le rapport de la puissance utile à la puissance absorbée par le capteur : $\eta = \dfrac{\phi_u}{E.S}$.

wadifa-info.com نماذج المباريات من موقع وظيفة إنفو

Source: www.wadifa-info.com/fr/modele-concours/1692 - Wadifa Info - page 6/10

2.2.3.1. Écrire l'expression du rendement η en fonction de D_m, C_m, T_s, T_e, E et S.

2.2.3.2. Calculer le rendement du capteur dans les conditions de fonctionnement citées ci-dessus.

2.3. Autres grandeurs caractéristiques

Pour cette section, on prendra : $h_p = 7,5\, W.m^{-2}.K^{-1}$.

2.3.1. Rayonnement de seuil

L'éclairement solaire E varie le long de la journée et dépend des conditions climatiques. Pour une valeur T_e donnée de la température d'entrée dans le capteur, le fluide ne reçoit effectivement de l'énergie thermique que si E dépasse une valeur limite E_s appelée rayonnement de seuil.

2.3.1.1. Donner l'expression de E_s en fonction de h_p, T_e et T_a. Calculer la valeur numérique de E_s.

2.3.1.2. Pour avoir des capteurs plus performants, doit-on chercher à obtenir un rayonnement de seuil le plus faible ou plutôt le plus grand possible ?

2.3.2. Température limite

Si pour un éclairement solaire E donné le débit du fluide s'annule, la température moyenne T_{pm} de la paroi absorbante va augmenter jusqu'à atteindre une valeur d'équilibre appelée température limite T_{pl}.

2.3.2.1. Déterminer l'expression de T_{pl} en fonction de E, T_a et h_p.

2.3.2.2. Afin d'éviter tout risque de dégradation du capteur, il faut considérer le comportement des matériaux utilisés à la température limite de fonctionnement correspondant à l'éclairement solaire maximum ($E_m \simeq 1000\ W.m^{-2}$). Déterminer la valeur numérique de la température limite correspondante.

2.4. Cas d'un capteur sans vitre

En absence de la couverture transparente, le flux total perdu est toujours donné par l'équation (4) et la température de sortie par l'équation (6). Les échanges entre la paroi absorbante et l'air ambiant sont modélisés par le coefficient de conduction-convection : $h_c = h_{c,c-a} = 10\ W.m^{-2}.K^{-1}$ et le coefficient de rayonnement h_r. On montre que :

$$h_r = \sigma T_a^3 \left(4 + \frac{T_a(1-\epsilon_a)}{T_{pm} - Ta}\right)$$

2.4.1. Montrer que dans ce cas le coefficient global de perte s'écrit sous la forme : $h_p = h_c + h_r$.

Une méthode itérative permet de trouver la température moyenne de la plaque absorbante en l'absence de vitre : $T_{pm} = 297\ K$.

2.4.2. Déterminer la nouvelle valeur de h_p.

2.4.3. Déterminer la nouvelle valeur de la température T_s de l'eau à la sortie du capteur. Commenter.

2.4.4. En déduire la nouvelle valeur du rendement η. Comparer au cas du capteur avec vitrage. Conclure quant à l'utilisation de la couverture transparente.

wadifa-info.com نماذج المباريات من موقع وظيفة إنفو

Source: www.wadifa-info.com/fr/modele-concours/1692 - Wadifa Info - page 7/10

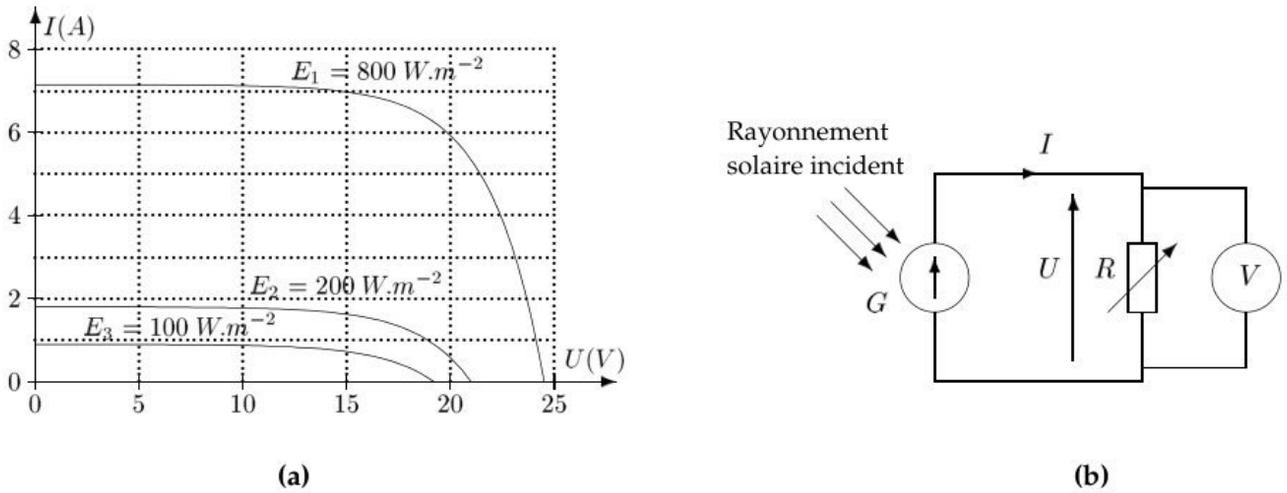

Figure 3: Caractéristiques d'une cellule photovoltaïque à différents éclairements.

3ème partie
Production d'énergie électrique par l'effet photovoltaïque

Une autre utilisation de l'énergie solaire est la production d'énergie électrique par des cellules photovoltaïques.

Les courbes caractéristiques $I = f(U)$ d'une cellule photovoltaïque G (ou panneau solaire) sont représentées sur le schéma de la figure 3-a. Ces courbes sont données pour une cellule de surface $S = 1\,m^2$ relativement à trois éclairements solaires différents :

- $E_1 = 800\ W.m^{-2}$ (éclairement solaire maximal)
- $E_2 = 200\ W.m^{-2}$ (ciel voilé)
- $E_3 = 100\ W.m^{-2}$ (ciel gris)

Les caractéristiques sont obtenues en utilisant le montage de la figure 3-b où l'on dispose d'une résistance variable étalonnée R et d'un voltmètre supposé idéal. On complète ces caractéristiques par le tableau donnant les tensions U_i, pour les différents éclairements E_i, en fonction de R.

$R\ (\Omega)$	∞	80	40	20	15	10	5	3	2	0,5
$U_1(V)$	24,5	24,3	24,25	24	23,8	23,5	22	17,9	14,2	3,54
$U_2(V)$	21	20,6	20,1	19	18	15,4	8,6	5,3	3,5	0,88
$U_3(V)$	19,2	18,5	17,5	14,8	12,5	8,9	4,3	2,64	1,8	0,45

3.1. Montrer que la mesure de la tension U suffit à établir la courbe caractéristique.

3.2. De quelle puissance électrique maximale peut-on disposer pour chaque éclairement ; donner alors les valeurs de l'intensité I_{max} et de la tension U_{max} correspondantes dans chaque cas. On pourra utiliser une solution graphique ou numérique et un résultat comportant deux chiffres numériques suffira.

3.3. Les caractéristiques expérimentales sont bien modélisées par la fonction :

$$I = I_0 \left(\exp\left(\frac{U}{U_0} \right) - 1 \right) + A.E$$

wadifa-info.com نماذج المباريات من موقع وظيفة إنفو

Source: www.wadifa-info.com/fr/modele-concours/1692 - Wadifa Info - page 8/10

On supposera, ce qu'on vérifiera à posteriori, que les intersections des caractéristiques avec l'axe horizontal correspondent à des valeurs de U largement supérieures à U_0.

3.3.1. Déterminer les valeurs numériques du courant du court-circuit I_{cc} correspondantes à chaque éclairement. En déduire la valeur de A.

3.3.2. Déterminer les valeurs numériques de la tension du circuit ouvert U_{co} correspondantes à chaque éclairement. En déduire les valeurs numériques de U_0 et I_0.

Pour la suite, on se placera sur la courbe d'éclairement maximal ($E_1 = 800\ W.m^{-2}$).

3.4. Branchement sur une charge

3.4.1. Le panneau solaire étant couplé à un ventilateur, assimilé à une résistance de $22\,\Omega$.

3.4.1.1. Déterminer la tension aux bornes du ventilateur et le courant qui le traverse. On précisera avec soin la méthode utilisée.

3.4.1.2. En déduire la puissance P_v reçue par le ventilateur et le rendement correspondant du panneau solaire.

3.4.2. On se propose maintenant de charger une batterie $\{12\,V, 1\,\Omega\}$. On suppose qu'au début, elle est complètement déchargée.

3.4.2.1. Que représentent les deux grandeurs entre accolades ?

3.4.2.2. Déterminer le courant qui traverse la batterie, la tension entre ses bornes et la puissance qu'elle reçoit au début de la charge. Comparer cette puissance à la puissance maximale délivrée par le panneau.

3.4.2.3. Sur la batterie, on lit qu'elle contient $8\,Ah$. Que représente cette grandeur ?

3.4.2.4. Quel est le temps nécessaire pour charger cette batterie ?

3.5. Associations de panneaux solaires

On veut construire une centrale solaire pouvant fournir une puissance électrique de $100\ kW$.

3.5.1. De quel nombre de cellules élémentaires de $1\ m^2$ faut-il disposer si chaque cellule fournit sa puissance maximale ?

3.5.2. Si on utilise des branches de $n_s = 50$ cellules placées en série, de quelle tension pourra-t-on disposer ? On suppose la résistance des connexions négligeables.

3.5.3. On met en parallèle $n_p = 20$ branches identiques constituées de n_s cellules en série. Quelle sera l'intensité globale qu'on pourra obtenir de l'ensemble ?

3.5.4. Quelle est la puissance maximale théorique disponible de cette centrale ? Déterminer alors le rendement de la centrale. Commenter.

3.5.5. Quelle est la résistance qui permet d'utiliser cette puissance, c'est-à-dire qui optimise le fonctionnement ? La comparer à celle d'une cellule élémentaire de $1\ m^2$.

FIN DE L'ÉPREUVE

wadifa-info.com نماذج المباريات من موقع وظيفة إنفو

Source: www.wadifa-info.com/fr/modele-concours/1692 - Wadifa Info - page 9/10

Wadifa Info

www.wadifa-info.com

Le sujet suivant à préparer — **النموذج التالي للتحضير**

نموذج مباراة ولوج سلك التكوين الأساسي - المدرسة الوطنية العليا للإدارة - دورة 26 نونبر 2016 -

Modèle de concours d'accès au cycle de formation initiale – École Nationale Supérieure de l'Administration – 26 novembre

www.wadifa-info.com/fr/modele-concours/640

Chaîne WhatsApp — **قناة واتساب**

المباريات الجديدة والنتائج كل يوم

Nouveaux concours et résultats chaque jour

wadifa-info.com/wa

Chaîne YouTube — **قناة يوتيوب**

امتحانات تجريبية بالتصحيح، بالدارجة

Examens blancs corrigés, expliqués en darija

youtube.com/@wadifainfo

Envoyer à un ami — **أرسل النموذج لصديق**

شارك هذا النموذج على واتساب مع من يحضّر معك

Partagez ce sujet sur WhatsApp

wa.me